KARTA PRACY
Z MAPĄ KONTUROWĄ

Grecja

Imię i nazwisko .....

Data ..... Klasa .....

Wykonaj ćwiczenia związane z mapą.

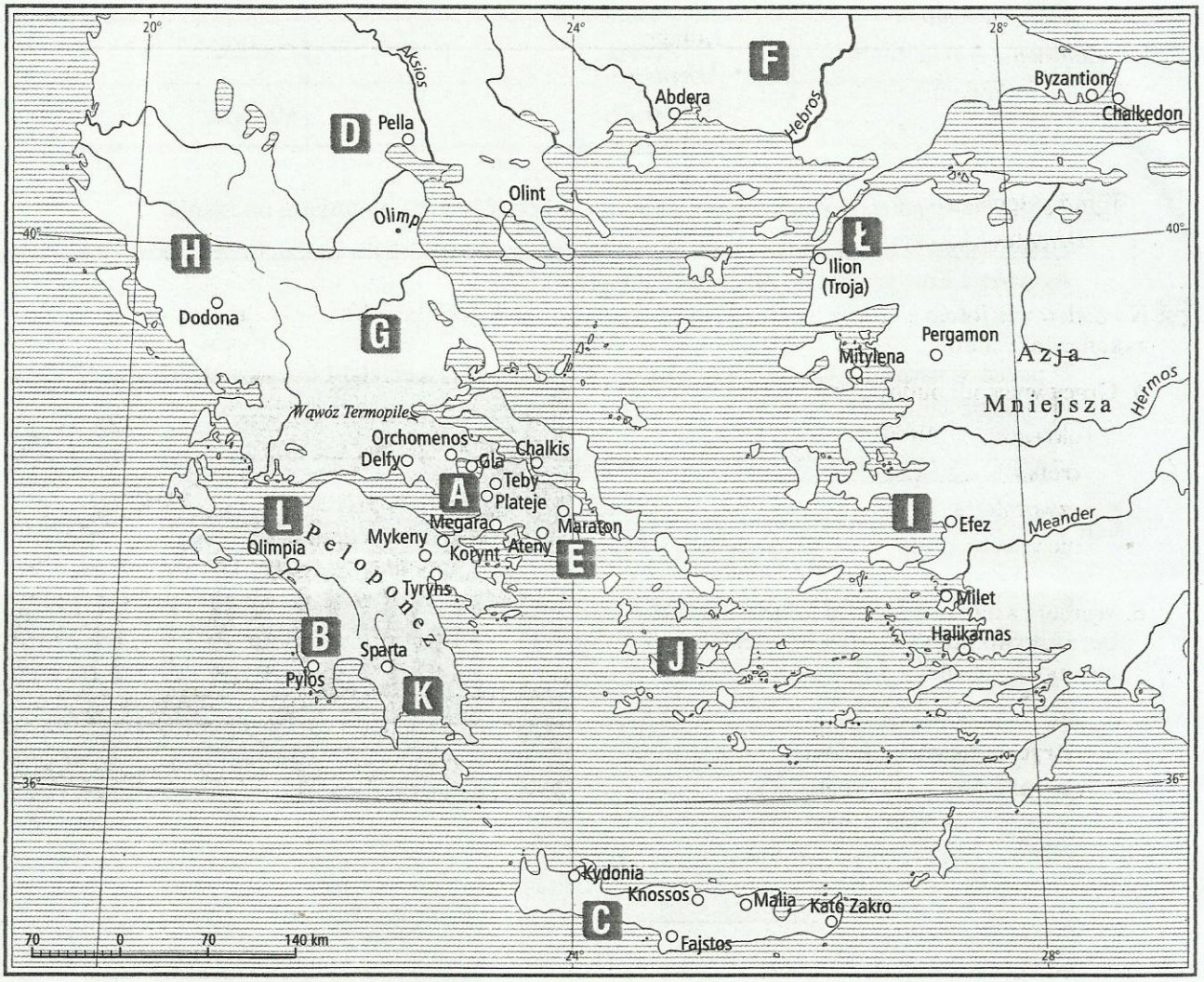

1 Wpisz w odpowiednie miejsca na mapie podane nazwy.

Morze Jońskie, Morze Kreteńskie, Morze Egejskie, Morze Czarne

2 Uzupełnij tabelę właściwymi nazwami miejsc, w których Grecy stoczyli bitwy z Persami, następnie podkreśl je na mapie.

Opis	Nazwa miejsca
Na tym terenie Grecy odnieśli zwycięstwo dzięki postawie Spartan, którzy przyjęli na siebie główne uderzenie Persów.	
Podczas tej bitwy przewagę zdobyli Grecy, którzy nie podjęli pościgu za uciekającymi Persami i uderzyli z dwóch stron na przeciwników walczących w środku pola.	
W tym miejscu na kamiennej tablicy znajduje się napis: *Przechodniu, powiedz Sparcie, że wierni jej prawom, tu spoczywamy.*	

3 Dopisz do podanych obszarów odpowiadające im litery na mapie.

Obszar	Litera	Obszar	Litera	Obszar	Litera
Kreta		Macedonia		Lakonia	
Attyka		Jonia		Tracja	
Epir		Achaja		Cyklady	
Tesalia		Beocja		Mesenia	

4 Podaj nazwy *poleis* pod ich wyjaśnieniami i podkreśl je dwiema liniami na mapie.

Ustrój tej *polis* był określany jako oligarchia. Mimo że rządzili w niej m.in. dwaj królowie z dynastii Agiadów i Eurypontydów, nie była to monarchia.

.....

U podstaw ustroju tej *polis* leżały eklezja, w której skład wchodzili wszyscy obywatele, i heliaja, składająca się z 6000 sędziów.

.....

5 Rozpoznaj zabytki ukazane na ilustracjach. Następnie zapisz na mapie obok miejsc, z których pochodzą wymienione obiekty, odpowiadające im numery.



1. .....



2. .....



3. .....



4. .....